E.M.E.F. “PROFESSORA CLARINDA DE ALMEIDA MELLO”

NOME:_____3º ANO C

PROFESSORA: ÍSIDE

ATIVIDADES DE MATEMÁTICA

1. Veja a reta numérica abaixo e responda.
O ponto onde a menina está localizada corresponde ao número:

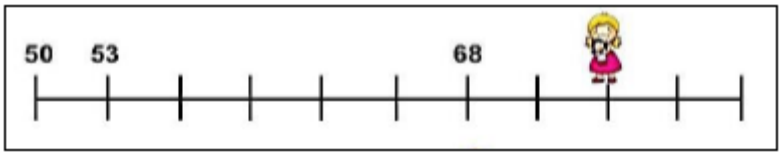

A) ☐ 70
B) ☐ 73
C) ☐ 74
D) ☐ 84

2. Veja o valor que Danilo usou para comprar pirulitos.

Esse valor corresponde a quantos reais?

A) ☐ R$ 2,00
B) ☐ R$ 2,75
C) ☐ R$ 2,85
D) ☐ R$ 3,65

3. O relógio abaixo mostra o horário que Natália vai para a aula de natação todos os dias.

O horário em que Natália sai é:

A) ☐ 10h e 10 m
B) ☐ 12h
C) ☐ 13h e 50 m
D) ☐ 13h.

4. Felipe estava somando uma conta em sua calculadora.

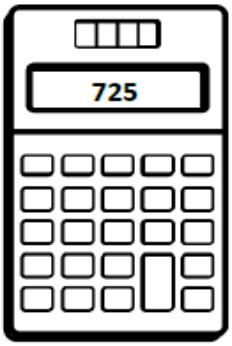

O resultado que apareceu foi:

A) ☐ setecentos e vinte.
B) ☐ setecentos e vinte e cinco.
C) ☐ setecentos e vinte e seis.
D) ☐ seiscentos e vinte e cinco

5. A tabela ao lado mostra o ano das primeiras publicações de algumas revistas infantis.

REVISTAS	ANO DAS PRIMEIRAS PUBLICAÇÕES
Mickey	1928
Zé Carioca	1945
Pato Donald	1950
Garfield	1978
Senninha	1994

De acordo com essa tabela, qual revista foi publicada por último?

A) ☐ Pato Donald

B) ☐ Senninha

C) ☐ Garfield

D) ☐ Mickey

6. Veja o gráfico abaixo. Ele mostra o consumo mensal de energia elétrica em determinado imóvel.

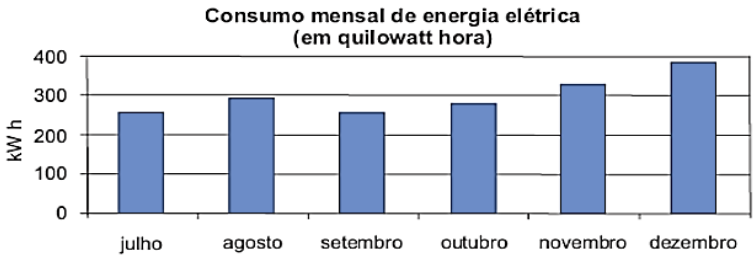

Conforme este gráfico, qual o mês que foi consumido mais energia?

A) ☐ Agosto

B) ☐ Dezembro

C) ☐ Outubro

D) ☐ Setembro

7. Para passar um troco, Sr. João teve que trocar esta cédula abaixo por outras de menor valor.

Por quais notas abaixo Sr. João pôde fazer a troca?

A) ☐

B) ☐

C) ☐

D) ☐

8. Observe a sequência numérica representada nestas estrelas.

O número que falta para completar a sequência é:

A) ☐ 35

B) ☐ 36

C) ☐ 37

D) ☐ 33

9. Calcule as operações.

246 + 180 =	400 – 163 =	89 – 74 =

609 – 163 =	65 x 5 =	326 x 3 =

126 x 2 =	40 : 5 =	96 : 2 =