EMEF ¨GASPARZINHO¨

Prefeitura Municipal de AMPARO Estância Hidromineral

Nome:_____ Nota: _____

Data:_____ Professora Vanessa 4º ano B

AVALIAÇÃO DE MATEMÁTICA – Sólidos Geométricos

Questão 1. Os objetos a seguir lembram os sólidos geométricos. Escreva o nome de cada sólido geométrico relacionado a cada objeto. Note que já há um modelo a seguir:

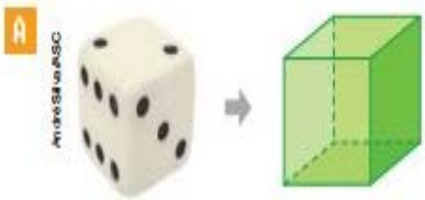

Cubo

_____

_____

_____

_____

Questão 2. Pedro desmontou uma caixa e, dessa forma, obteve seu molde.

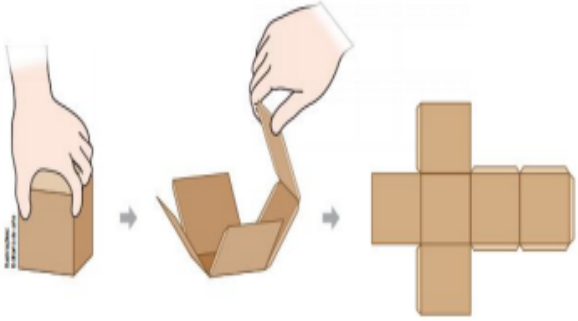

a) A caixa lembra qual forma geométrica espacial?

_____

Questão 3. Identifique e escreva o nome dos sólidos geométricos a seguir.

_____ _____ _____

Agora, relacione cada sólido geométrico ao seu molde, escrevendo, no quadro, a letra correspondente.