TODOS CONTRA O CORONAVIRUS – USE MÁSCARA – SE PUDER FIQUE EM CASA

Turma:	***Professor(es) (as):***	***Semana:***
4º B	Luciene e Clara	20/07/2020 a 24/07/2020

NOME:_____ DATA:____/____/____

Matemática

▸ Polígonos

- Você está vendo várias **linhas fechadas**.
- Elas formam **figuras** chamadas **polígonos**.
- Os **polígonos** são denominados de acordo com o **número de lados**.

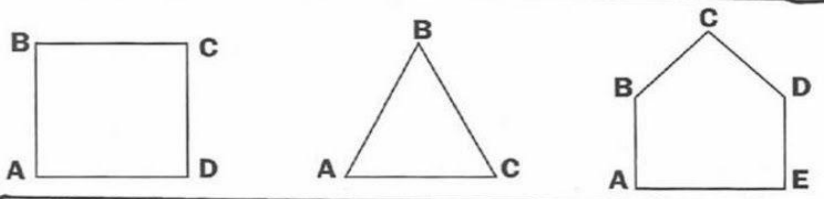

- Cada polígono tem pelo menos 3 segmentos de reta.
- Cada segmento de reta é um lado do polígono.
- Os polígonos têm nomes. Observe:

O **triângulo** é um polígono com **3** lados. 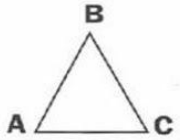	O **quadrilátero** é um polígono com **4** lados. 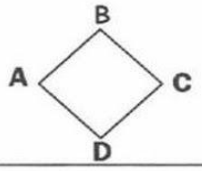	O **pentágono** é um polígono com **5** lados. 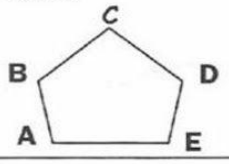

- Os **quadriláteros recebem** nomes diferentes.
- Veja alguns exemplos:

quadrado	retângulo	trapézio	losango
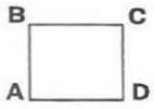		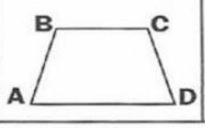	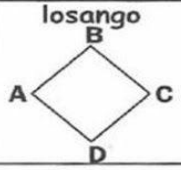

https://www.terapedagogica.com/