Prefeitura Municipal de AMPARO Estância Hidromineral
SECRETARIA MUNICIPAL DE EDUCAÇÃO

Escola Municipal de Ensino Fundamental "GASPARZINHO"
Rua José de Araújo Cintra, nº 20 - Centro – Amparo / SP
Fone: 3807-5253 - Fax: 3808-5323
email: emgasparzinho@amparo.sp.gov.br

Nome: _____ Data _____

Professora: Ana Maria 4º ano A

MATEMÁTICA

1-) Coloque os ponteiros no relógio analógico, de modo que fique como as horas do relógio digital.
***** Lembre-se: ponteiro grande marca as horas e ponteiro pequeno marca os minutos

12:30	06:20	15:05	21:15	13:50
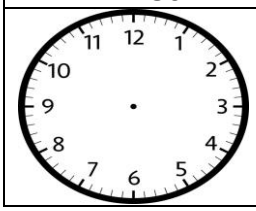	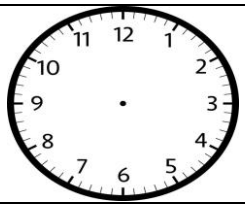	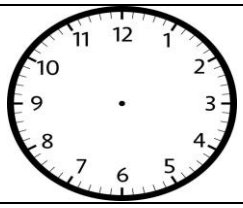	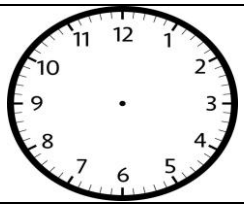	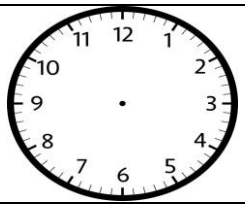

2-) Agora, observe as horas no relógio analógico e preencha abaixo o relógio digital.

				

3-) A professora Ana Maria, começou a organizar os números no quadro de acordo com sua ordem. Ajude a professora a terminar de preencher esse quadro e a escrita dos números por extenso.

	MILHARES			UNIDADES SIMPLES		
NÚMERO	**Centena de milhar**	**Dezena de milhar**	**Unidade de milhar**	**Centena**	**Dezena**	**Unidade**
a-) **535.609**	5	3	5	6	0	9
b-) **68. 591**						
c-) **172.093**						
d-) **9.498**						
e-) **3.104**						

a) Quinhentos e trinta e cinco mil, seiscentos e nove _____
b) _____
c) _____
d) _____
e) _____

4- Elabore e depois resolva nas linhas abaixo uma situação problema de **subtração** onde apareçam os números: 2.375 e 1.095. **Não esqueça da pergunta e da resposta.**

_____
_____
_____
_____
_____
_____
_____
_____
_____
_____