Prefeitura Municipal de
AMPARO
Estância Hidromineral
SECRETARIA MUNICIPAL DE EDUCAÇÃO

CIME "PETER PAN"
Praça Américo Ferreira de Camargo, 35
Bairro São Sebastião / Amparo-SP
Telefone: (19) 3817-3338

TODOS CONTRA O CORONAVIRUS – USE MÁSCARA – SE PUDER FIQUE EM CASA

Turma:	*Professor(es) (as):*	*Semana:*
3º ANO B	Helena / Maristela	01/07 à 14/07/2020

3º ANO B – PROFESSORAS: HELENA / MARISTELA

ROTINA QUINZENAL – 01/07/2020 A 14/07/2020

- **LÍNGUA PORTUGUESA**: ATIVIDADES IMPRESSAS **UMA** POR DIA.

ESCRITA DE **UMA** PARLENDA POR DIA A ESCOLHER (LIVRO LARANJA).

- LEITURA ORAL DO LIVRO LER E ESCREVER (LARANJA) PÁGINAS: 110,114,124,128,145,147,156,168 .

- TRILHAS DE APRENDIZAGENS (ESTÁ NO GRUPO) 3ºANO PÁGINAS: 46,47,48,49,80,81,112,113,133 FAZER ATIVIDADE 4, 134,135.

ESTUDAR LEITURA ORAL TODOS OS DIAS.

- MATEMÁTICA: ATIVIDADES IMPRESSAS, **UMA** POR DIA.

FAZER A TABUADA DO 2 AO 10.

ESTUDAR TABUADA TODOS OS DIAS.

- **CIÊNCIAS:** OS SENTIDOS LEITURA E RESPONDER AS QUESTÕES .

- HISTÓRIA: RETOMAR TEXTO: O LAZER DE TODOS / TRABALHO E LAZER NO BRASIL DE OUTRAS ÉPOCAS. LER E RESPONDER AS QUESTÕES.

- GEOGRAFIA: A PAISAGEM E A VIDA NO CAMPO. LEITURA DO TEXTO E RESPONDER QUESTÕES.

- ARTE: ENTRAR YOUTUBE E PESQUISAR ROMERO BRITTO. SUA VIDA E OBRAS. RELEITURA DA OBRA MONA CAT.

MUNDO DO SABER.

ASSISTIR TV CULTURA (CANAL 10.3) DAS 10H30 ÀS 12H

Digitalizado com CamScanner

CIME "PETER PAN"
Praça Américo Ferreira de Camargo, 35
Bairro São Sebastião / Amparo-SP
Telefone: (19) 3817-3338

6. LEITURA DE TEXTO INFORMATIVO

Leia o texto informativo sozinho e responda às perguntas.

A lagartixa é um pequeno lagarto tropical que costuma viver nas casas das pessoas. Podemos vê-la subindo pelas paredes, janelas e andando no teto. ela consegue andar de cabeça para baixo sem cair, graças ao fato de que suas patas grudam na parede e no teto. Vive nas casas e é muito útil, porque se alimenta de insetos daninhos como traças e mosquitos. durante o dia esconde-se em algum cantinho para fugir do calor. À noite ela sai para caçar, passeia pelas paredes, portas e janelas à procura de alimento. Se, por acaso, o rabinho de uma lagartixa for cortado, volta a crescer outro igual no lugar!

ONDE A LAGARTIXA COSTUMA VIVER?

O QUE A LAGARTIXA FAZ DE BOM PARA A GENTE?

7. CÓPIA DE UMA ADIVINHA

Leia a adivinha e copie nas linhas abaixo, utilizando letra manuscrita (letra de mão), sinais de pontuação e as maiúsculas que considerar necessários.

Digitalizado com CamScanner

ESCOLA: _____

NOME _____

_____ ANO _____ DATA _____

CIÊNCIAS – 2º BIMESTRE - (PARTE1)

1-) CLASSIFICAR OS SERES VIVOS É ORGANIZÁ-LOS EM GRUPOS, DE ACORDO COM SUAS CARACTERÍSTICAS (SEMELHANÇAS). POR ISSO É IMPORTANTE ESSA CLASSIFICAÇÃO PARA QUE ESSES ANIMAIS POSSAM SER:

( ) COLORIDOS ( ) ESTUDADOS ( ) SABOREADOS ( ) VENDIDOS

2-) OS ANIMAIS PODEM SER CLASSIFICADOS EM HERBÍVOROS, ONÍVOS E CARNÍVOROS. MAS TAMBÉM PODEM SER CLASSIFICADOS EM OUTROS DOIS GRUPOS: COM OU SEM COLUNA VERTEBRAL. ESSES DOIS GRUPOS SÃO:

( ) VERTEBRADOS E PRIMATAS ( ) VERTEBRADOS E INVERTEBRADOS

( ) INVERTEBRADOS E INVERTIDOS ( ) VERTICAL E INVERTEBRADOS

3-) OS ANIMAIS QUE **TÊM** COLUNA VERTEBRAL SÃO OS ANIMAIS:

( ) VERTICAL ( ) VERTEBRADOS ( ) INVERTIDOS ( ) INVERTEBRADOS

4-) OS ANIMAIS QUE **NÃO TÊM** COLUNA VERTEBRAL SÃO OS ANIMAIS:

( ) INVERTIDOS ( ) VERTICAL ( ) INVERTEBRADOS ( ) VERTEBRADOS

5-) SÃO MUITOS OS ANIMAIS INVERTEBRADOS, A MAIORIA DELES SÃO PEQUENOS, VIVENDO TANTO NA ÁGUA QUANTO NA TERRA. PINTE AS ALTERNATIVAS ONDE HÁ APENAS ANIMAIS INVERTEBRADOS.

ÁGUA VIVA, MINHOCA, BESOUROS	**ARANHA, COBRA, PASSARINHO**	**ESTRELA DO MAR, CARANGUEJO**
CAMARÃO, CARACOL, LEÃO	**ESCORPIÃO, LESMA, CENTOPÉIA**	**ONÇA, BORBOLETA, BALEIA**

6-) ASSINALE EMBAIXO DA IMAGEM DE CADA ANIMAL INVERTEBRADO SE ELE VIVE **NA ÁGUA, NA TERRA OU SE POSSUE CONCHA.**

( ) ÁGUA **( ) TERRA** **( ) CONCHA**	**( ) ÁGUA** **( ) TERRA** **( ) CONCHA**	**( ) ÁGUA** **( ) TERRA** **( ) CONCHA**

Digitalizado com CamScanner

 ( ) ÁGUA ( ) TERRA ( ) CONCHA	 ( ) ÁGUA ( ) TERRA ( ) CONCHA	 ( ) ÁGUA ( ) TERRA ( ) CONCHA
 ( ) ÁGUA ( ) TERRA ( ) CONCHA	 ( ) ÁGUA ( ) TERRA ( ) CONCHA	 ( ) ÁGUA ( ) TERRA ( ) CONCHA

7-) ASSINALE A ALTERNATIVA CORRETA ONDE APARECE AS 4 FASES DO MOSQUITO DA DENGUE (AEDES AEGYPTI).

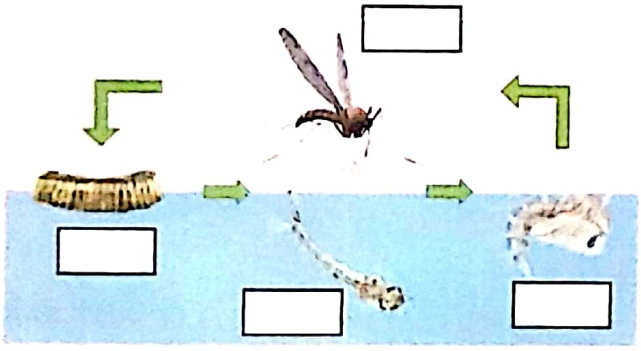	( ) OVOS, LARVAS,MOSQUITO, ADULTO ( ) OVOS, ADULTO, DENGUE, PUPA ( ) LARVAS, ADULTO , OVOS, DENGUE ( ) OVOS, LARVAS, PUPA, ADULTO ( ) OVOS, LATAS, PUPO, ADULTO

8-) EM RELAÇÃO AOS CUIDADOS QUE DEVEM SER TOMADOS PARA QUE O MOSQUITO DA DENGUE NÃO AUMENTE SÃO: **(Pintar só o correto para evitar o aumento da dengue)**

GUARDE AS GARRAFAS SEMPRE VIRADAS PARA BAIXO
DEIXAR BALDES CHEIO DE ÁGUA AO AR LIVRE E DESTAMPADO
JOGUE NO LIXO QUALQUER OBJETO QUE POSSA ARMAZENAR ÁGUA
MANTENHA BEM TAMPADOS, BALDES, TONÉIS, PISCINAS E CAIXAS D'ÁGUA
NÃO USAR REPELENTE E DEIXAR O MOSQUITO MORDER NOSSO CORPO
GUARDE PNEUS AO ABRIGO DA CHUVA E DA ÁGUA
DEIXAR OS PRATINHOS DAS PLANTAS SEMPRE COM BASTANTE ÁGUA ACUMULADA
ENCHA DE AREIA OU TERRA OS PRATINHOS DE VASOS DE PLANTA
USAR REPELENTES EM TODO O CORPO
TAMPE OS RALOS COM TELAS OU MANTENHA-OS VEDADOS, PRINCIPALMENTE OS QUE ESTÃO FORA DE USO
DEIXAR A CASA SEMPRE SUJA E COM ACUMULO DE LIXO

Digitalizado com CamScanner

9-) TEMOS UMA ENORME VARIEDADE DE ANIMAIS VERTEBRADOS (**TEM** COLUNA VERTEBRAL). ASSINALE APENAS AS IMAGENS ONDE OS ANIMAIS **SÃO** VERTEBRADOS.



10-) OS **PEIXES** SÃO ANIMAIS AQUÁTICOS, TÊM NADADEIRAS QUE AJUDAM NA NATAÇÃO, A MAIORIA TÊM O CORPO COBERTO POR ESCAMAS, VIVEM NOS RIOS, LAGOS E MARES.

OS **ANFÍBIOS** VIVEM NA ÁGUA DOCE OU EM AMBIENTES TERRESTRES ÚMIDOS. TÊM PELE FINA E ÚMIDA E A MAIORIA TÊM PERNAS QUANDO ADULTOS.

OS **RÉPTEIS** TAMBÉM PODEM VIVER NA ÁGUA OU NA TERRA. A MAIORIA TÊM O CORPO COBERTO DE ESCAMAS E A PELE GROSSA E SECA. ALGUNS RASTEJAM OU CAMINHAM RENTE AO CHÃO.

BASEADO NAS EXPLICAÇÕES ACIMA, COLOQUE A LETRA:
(P) PARA **PEIXES**, A LETRA **(A)** PARA **ANFÍBIOS** E A LETRA **(R)** QUANDO FOR UM **RÉPTIL.**

( ) SAPO	( ) LAGARTO	( ) SARDINHA
( ) SERPENTE	( ) PEIXE BOI	( ) CECÍLIA
( ) CAVALO MARINHO	( ) PERERECA	( ) BALEIA
( ) TARTARUGA MARINHA	( ) ATUM	( ) RÃ

BOA SORTE!

Digitalizado com CamScanner

CIME "PETER PAN"
Praça Américo Ferreira de Camargo, 35
Bairro São Sebastião / Amparo-SP
Telefone: (19) 3817-3338

Tabela de Multiplicação

Complete a tabela:

X	1	2	3	4	5	6	7	8	9	10
1		2								
2	2	4								
3										
4	4									
5										
6										
7										
8										
9										
10										

Observe a tabela com atenção antes de responder as questões abaixo:

É correto afirmar que 5 x 3 = 6 x 4? Por quê?

O que os resultados 4 – 9 – 16 – 25 – 36 – 49 – 64 – 81 – 100 tem em comum?

Em quais multiplicações o resultado é 20?

Quais múltiplos de 7 são pares?

Como você localizará na tabela o resultado 7 x 5?

O que caracteriza a tabuada do 5?

Digitalizado com CamScanner

1. A fábula a seguir está sem pontuação. Leia e pontue devidamente:

O Galo e a Pérola

Um galo que ciscava no terreiro para encontrar alimento fossem migalhas ou bichinhos para comer acabou encontrando uma pérola preciosa após observar sua beleza por um instante disse

Ó linda e preciosa pedra que reluz seja como o sol seja como a lua ainda que esteja num lugar sujo se tu encontrasses um humano fosse ele um construtor de joias uma dama que gostasse de enfeites ou mesmo um mercenário te recolherias com muita alegria mas a mim de nada prestas pois que é mais importante uma migalha um verme ou um grão que sirvam para o sustento

Dito isto deixou-a e seguiu esgravatando para buscar conveniente mantimento

Fábulas de Esopo.

CIME "PETER PAN"
Praça Américo Ferreira de Camargo, 35
Bairro São Sebastião / Amparo-SP
Telefone: (19) 3817-3338

Digitalizado com CamScanner

CIME "PETER PAN"
Praça Américo Ferreira de Camargo, 35
Bairro São Sebastião / Amparo-SP
Telefone: (19) 3817-3338

NOME:_____**DATA**__/___/___
PROFESSORAS: _____

LINGUA PORTUGUESA

GÊNERO: TEXTO DE DIVULGAÇÃO CIENTIFICA



Por que as estrelas parecem piscar no céu?

O pisca-pisca acontece porque a luz desses astros precisa atravessar a atmosfera da Terra

Olhe para o céu. Se você já fez este gesto em uma noite sem nuvens e com muitas estrelas deve ter ficado encantado. Que brilho tem as estrelas na imensidão do espaço, não é mesmo? Porém, esses astros não apresentam, para os olhos humanos, um brilho fixo. Elas parecem tremer ou piscar. Será?

Na verdade, o pisca-pisca das estrelas é fruto de um fenômeno chamado pelos cientistas de cintilação, que acontece por causa do deslocamento da luz desses astros em direção à Terra. Esse efeito se dá porque a luz dos astros precisa atravessar a atmosfera do planeta, onde há gases que formam camadas que estão em diferentes temperaturas e em movimento constante. Portanto, para iluminar o céu terrestre, a luz das estrelas precisa passar por uma espessa e agitada camada de gases, causando o efeito de tremor das estrelas a que assistimos, algumas vezes, no céu.

A intensidade da cintilação pode ser maior ou menor, dependendo do caminho que a luz das estrelas precisa percorrer até atravessar toda a atmosfera da Terra. Ou seja: quanto mais movimentos apresentarem as camadas que compõem a atmosfera e mais longo for o caminho percorrido pela luz das estrelas para atravessá-la, mais a cintilação será percebida.

Faça um teste observando uma estrela que acaba de aparecer no horizonte e outra localizada logo acima da sua cabeça. A primeira parece piscar bem mais porque, no horizonte, os raios de luz precisam atravessar uma camada de ar muito maior do que no Zênite – o nome que se dá à posição vertical dos astros, localizados bem no meio do céu. Interessante, não?

Rute Helena Trevisan. Departamento de Física. Universidade Estadual de Londrina. Revista CHC | Ediçã

Digitalizado com CamScanner

INTERPRETAÇÃO DO TEXTO

1 - A) DE ACORDO COM O TEXTO COMO É CHAMADO O PISCA-PISCA DAS ESTRELAS? POR QUE ISSO ACONTECE?

B) PARA OCORRER A CINTILAÇÃO O QUE OS ASTROS PRECISAM FAZER?

C) PARA ILUMINAR O CÉU TERRESTRE O QUE ACONTECE COM A LUZ DAS ESTRELAS?

D) EXPLIQUE PORQUE A INTENSIDADE DACINTILAÇÃO DAS ESTRELAS POEDE SER MAIOR OU MENOR?

E) QUE NOME SE DÁ A PIOSIÇÃO VERTICAL DOS ASTROS LOCALIZADOS BEM NO MEIO DOCÉU?

2-

VOCÊ SABIA...

QUE O PLANETA ÁGUA É O ÚNICO PLANETA DO SISTEMA SOLAR QUE CONTÉM UMA SUPERFÍCIE COM ÁGUA QUE COBRE 71% DA TERRA.

AGORA É ASUA VEZ! COM O ESTUDO DA SEQUÊNCIA DIDÁTICA: ASTRONOMIA

ESCREVA 5 VOCÊ SABIA, COM AS INFORMAÇÕES APRENDIDAS, DE ACORDO COM O MODELO ACIMA.

Digitalizado com CamScanner

NOME:_____DATA___/___/___
Profª _____ 3º ano _____

MATEMÁTICA

1-Gabriela tinha 58 figurinhas e ganhou 10 num jogo. Quantas figurinhas ela tem agora?

R:_____

2- Renato tinha alguns cards, ganhou 15 num jogo e ficou com 76. Quantos cards ele tinha?

R:_____

3-Amanda tinha 38 cards. Ganhou alguns e ficou com 81. Quantos cards ela ganhou?

R:_____

CIME "PETER PAN"
Praça Américo Ferreira de Camargo, 35
Bairro São Sebastião / Amparo-SP
Telefone: (19) 3817-3338

Digitalizado com CamScanner

4-Matheus e Gustavo estão colecionando figurinhas, Matheus tem 26 e Gustavo 15. Quantas figurinhas Gustavo deve conseguir para ter o mesmo número de Matheus?

R:_____

5-Mariana colou 20 novos adesivos em sua coleção e ficou com 32 no álbum. Quantos adesivos tinha antes de colar os novos?

R:_____

6-Emily e Gabriela fazem colares de contas. O colar de Brenda tem 18 contas pequenas. O de Gabriela tem 6 contas a menos, porque ela usa contas maiores. Quantas contas tem o colar de Gabriela?

R:_____

7-Camilla está na página 38 de um livro de 72 páginas. Quantas páginas faltam para ela terminar de ler o livro?

R:_____

Digitalizado com CamScanner